SVEUČILIŠTE U SPLITU

FAKULTET GRAĐEVINARSTVA, ARHITEKTURE I GEODEZIJE

STUDIJ ARHITEKTURE

PREDDIPLOMSKI SVEUČILIŠNI STUDIJ ARHITEKTURE

DODATNA PROVJERA ZNANJA, VJEŠTINA I

SPOSOBNOSTI - TEST 3 / 12.09.2013. / 9:00 SATI /

TRAJANJE: 120 MINUTA

3

PAŽLJIVO PROČITATI!

NAPOMENE PRISTUPNICIMA:

LISTOVE SA ZADACIMA MOŽETE KORISTITI ZA SKICIRANJE, RJEŠAVANJE ZADATAKA I BILJEŽENJE RJEŠENJA - ONI SE NEĆE ISPRAVLJATI NITI BODOVATI!

ODGOVORE JE POTREBNO ISPUNITI NA ZASEBNOM OBRASCU ZA POPUNJAVANJE ODGOVORA.

ODGOVORI SE UPISUJU OZNAKOM 'X' (U SLUČAJU PONUĐENIH ODGOVORA) ILI UPISOM ODGOVORA U SIVA POLJA OBRASCA.

NA OBRASCU ZA ODGOVORE KORISTITE KEMIJSKU OLOVKU.

OBAVEZNO ISPUNITE ODGOVORE NA SVA PITANJA ('NE ZNAM' JE TAKOĐER ODGOVOR).

NEMOJTE ISPRAVLJATI ODGOVORE.

OSIM ODGOVORA NA PITANJA OBRAZAC NE SMIJE SADRŽAVATI DRUGE BILJEŠKE ILI SKICE. U PROTIVNOM SE NEĆE PRIZNAVATI BODOVI.

UZ SVAKI ZADATAK NA OBRASCU NAZNAČEN JE UKUPAN BROJ BODOVA ZA TOČNO RIJEŠEN ZADATAK.

U TESTU NEMA NEGATIVNIH BODOVA.



1. Datum 11. rujna, termin početka ovog prijemnog ispita, povezan je s temom filma 'Zero Dark Thirty' - o najtraženijem čovjeku u povijesti. Oduševio je kritiku koja ga je proglasila jednim od najboljih filmova 2012. godine. Film je režirala?

a) Kathryn Bigelow
b) Catherine Hardwicke
c) Sofia Coppola
d) Haifaa Al Mansour
e) Jane Campion

2. Prikazana su dva poznata arhitekta na svojim kreacijama u reklamnoj kampanji 'Modern Always' tvrtke Knoll iz 2013. Jedan je projektirao novu Nacionalnu galeriju (2.1), a drugi Nizozemsku ambasadu u Berlinu (2.2). Oni su...?

3. Uz svoj rad snimljen je:
a) Andy Goldsworthy
b) Olafur Eliasson
c) Antony Gormley
d) Jeff Koons
e) Christo

4. Peristil je 'osvanuo' u različitim bojama. Najpoznatiji je onaj iz 1968. To je:

a) Zeleni peristil
b) Crveni peristil
c) Crni peristil
d) Žuti peristil
e) Plavi peristil





5. Gornja lijeva slika prikazuje računalo koji preuzme kontrolu u filmu Stanleya Kubricka iz 1968.godine.
5.1 Navedite ime filma.

5.2 Ime računala je?

a) IBM 9000
b) HAL 9000
c) JCN 9000
d) MIB 9000
e) SMS 9000



6. Na gornjim slikama su prikazani stupovi. Njihovi kreatori su redom:

a) Le Corbusier / Walter Gropius / Eero Saarinen
b) Frank Lloyd Wright / Mies van der Rohe / Walter Gropius
c) Frank Lloyd Wright / Le Corbusier / Mies van der Rohe /
d) Walter Gropius / Le Corbusier / Eero Saarinen
e) Mies van der Rohe / Le Corbusier / Frank Lloyd Wright



7. Fotografija prikazuje komunikacijske prostore...?

8. Tko je autor skulpture s novčanice od 100 švicarskih franaka?

a) Roth
b) Giaccometti
c) Moore
d) Rodin
e) Vasarely

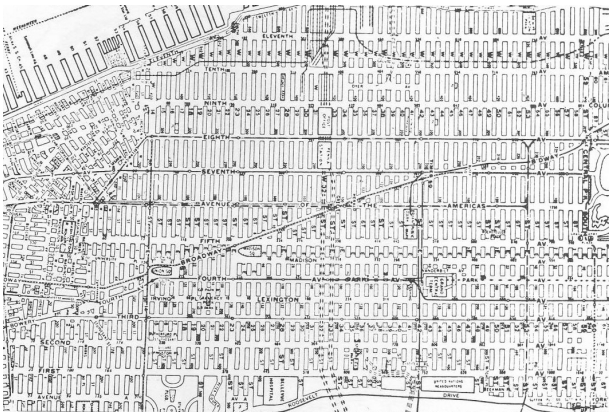

9. Gornja slika prikazuje?

a) Los Angeles
b) New York
c) Barcelona
d) Dubai
e) Tokyo



10. Glumac Cristoph Waltz se pojavljuje u reklamnoj kampanji za kolekciju jesen 2013 modne kuće Prada. Waltz glumi u filmu Inglorious Basterds i ...

a) The Bourne Legacy
b) Argo
c) The Dark Knight Rises
d) Skyfall
e) Django Unchained

11. OMA (Office for Metropolitan Architecture) za Milanski trienale 1986. godine u dodijeljenom zakrivljenom prostoru koristila je matricu poznate građevine te izgradila zakrivljenu varijantu...

a) Stambene kuće u New Cannanu
b) Paviljona u Barceloni
c) Ville Savoye
d) Kuće Schroeder
e) Škole Bauhaus



12. Studio 3LHD realizirao je novu splitsku rivu u potezu (gornje dvije slike) dužine:
a) cca 125m
b) cca 250m
c) cca 500m
d) cca 750m
e) cca 1000m

13. Andy Warhol u svom studiju u New Yorku snima avangardne i tzv.underground filmove. Ime studija je:
a) 'Hospital'
b) 'Factory'
c) 'Garage'
d) 'Super-Studio'
e) 'Crib'







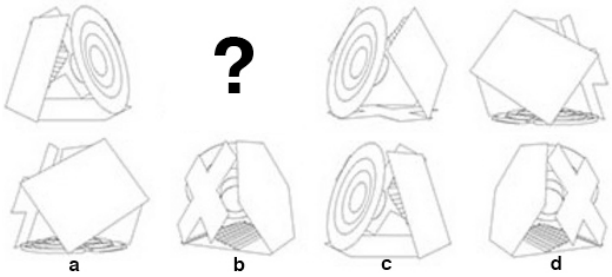

14. Transformer, postavljen je prvi put u Seulu s izložbom suknji. Jednostavni oblici kruga, križa, kvadrata i heksagona zatvaraju prostor objekta koji se postavlja i rotira ovisno o korištenju: film, izložba, ili neki drugi događaj. Lijevi stupac prikazuje maketu, montažu i fotografije eksterijera Transformera. Na gornjoj slici je dijagramski prikazan projekt. Definiraj sliku (a,b,c,ili d) koja upotpunjava gornji niz.

15. Gornja slika prikazuje kreatora koji radi i za modnu kuću:

a) Giorgio Armani
b) Coco Chanel
c) COMME des GARÇONS
d) Valentino Garavani
e) Yohji Yamamoto

16. Scena 'You talkin' to me?' u kojoj Travis Bickle govori pred ogledalom je De Nirova improvizacija; u scenariju piše samo: "Travis gleda u zrcalo".

Robert De Niro tumači glavnu ulogu u filmu Martina Scorsese-a iz 1976.:

a) Maratonac
b) Diplomac
c) Sadist
d) Taksist
e) Ubojica

17. Ovo je 'Icons' reklamna kampanja tvrtke Rolex iz 2013. godine. Dvije osobe koje nisu na slikama su... (označi dva slova u retku br. 17 obrasca s odgovorima)

a) James Cameron
b) Dwight D. Eisenhower
c) Alfred Einstein
d) Andy Warhol
e) Brigitte Bardot

18. Na gornjim slikama prikazana je dijagramska maketa i interijeri koje građevine...?



19. Autor gornje realizacije je:

a) Richard Neutra
b) Philip Johnson
c) Rudolph Schindler
d) Walter Gropius
e) Eero Saarinen



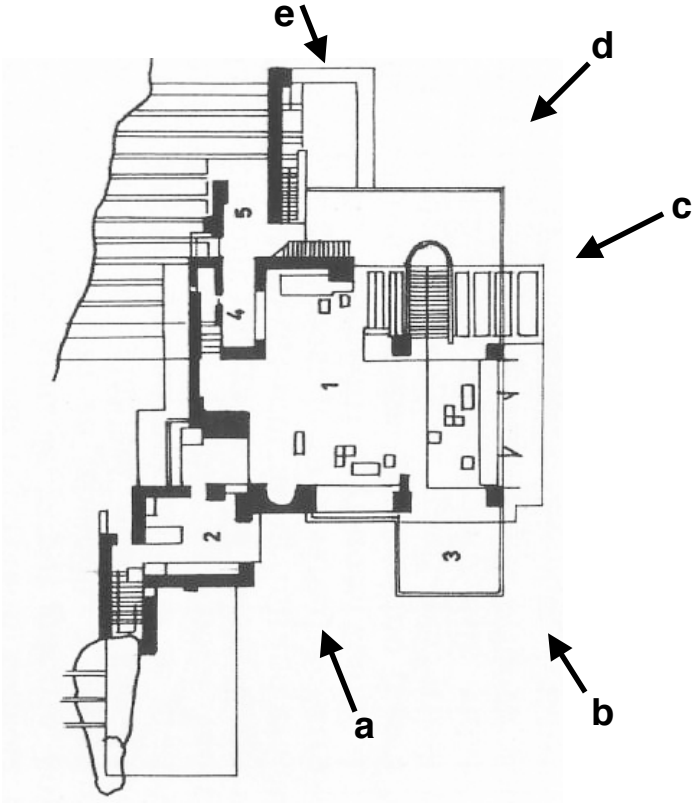

20. Kuća slapova. Bear Run. SAD. Poveži fotografije (označene brojevima 20.1 i 20.2) s pozicijama snimanja (označenim slovima na tlocrtu).



21.1

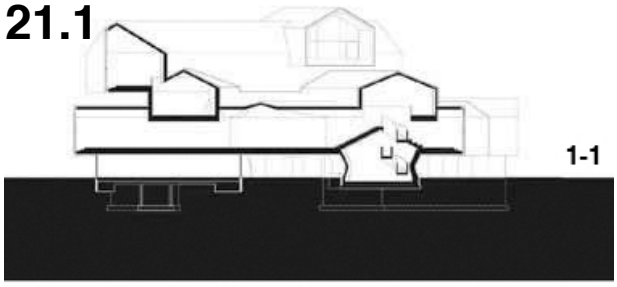

21.2

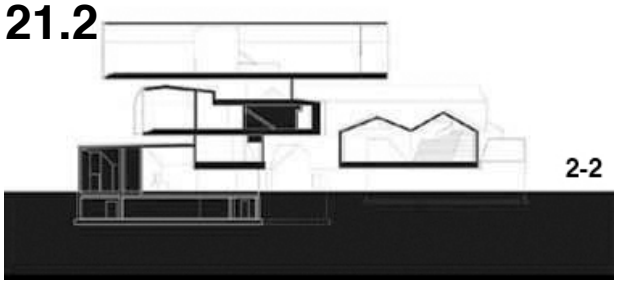

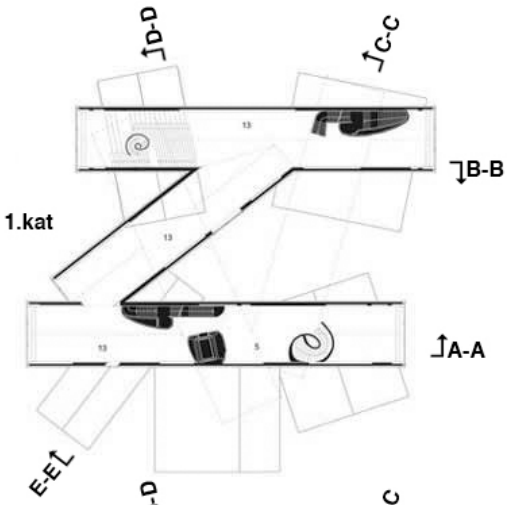

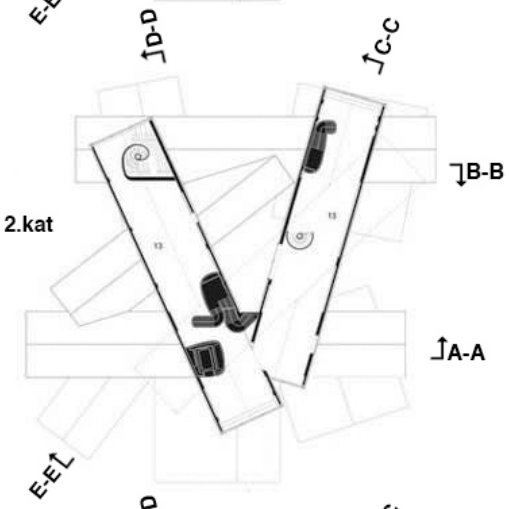

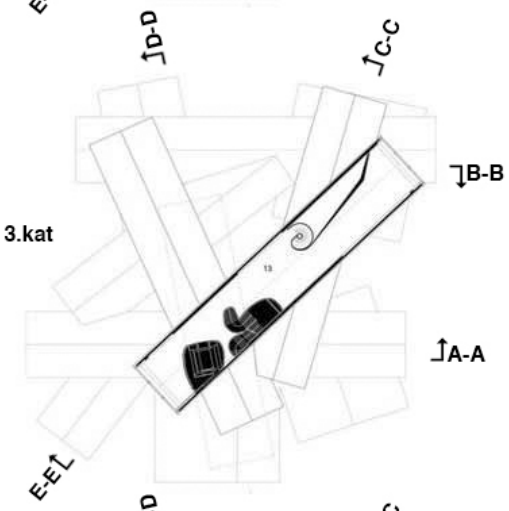

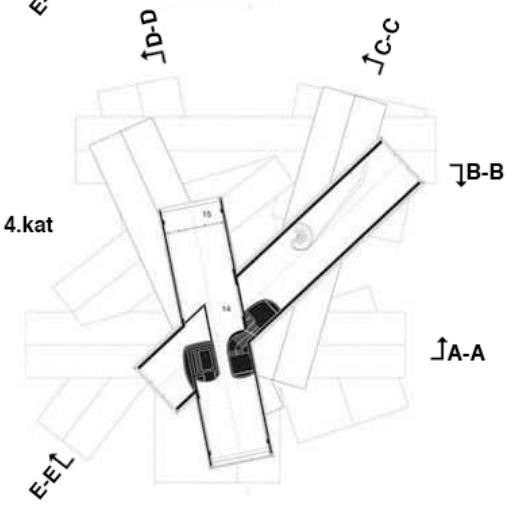

21. Projekt švicarskih arhitekata Herzoga i de Meurona 'Vitra-haus' izgrađen u njemačkom gradiću Weil am Rheinu, otkako je 2007. predstavljen, izazvao je velik interes i zavidne komentare strukovne javnosti. U desnom stupcu nanizani su tlocrti od 1. kata (na vrhu lista) do 4.kata. Definiraj koji presjeci (a,b,c,d ili e) odgovaraju prikazanim presjecima 1-1 (odgovoriti u rubriku 21.1) i 2-2 (odgovoriti u rubriku 21.2). *(napomena: strelica definira smjer gledanja)*

SVEUČILIŠTE U SPLITU / FAKULTET GRAĐEVINARSTVA, ARHITEKTURE I GEODEZIJE

PREDDIPLOMSKI SVEUČILIŠNI STUDIJ ARHITEKTURE

DODATNA PROVJERA ZNANJA, VJEŠTINA I SPOSOBNOSTI - TEST 3 / 12.09.2013. / 9:00 SATI /
OBRAZAC ZA POPUNJAVANJE ODGOVORA:

ZADATAK	A	B	C	D	E		BOD	OSTVARENO
1							8	
2.1	:						8	
2.2.	:						8	
3							8	
4							8	
5.1	:						4	
5.2							4	
6							8	
7	:						8	
8							8	
9							8	
10							8	
11							8	
12							8	
13							8	
14							16	
15							8	
16							8	
17							4 + 4	
18	:						8	
19							8	
20.1							8	
20.2							8	
21.1							8	
21.2							8	
SVEUKUPNO							200	